Klassenarbeit - Gemischte Themen 2. Halbjahr

Addition und Subtraktion; Sachaufgaben; Subtrahieren; Rechenschlange; Streke zeichnen

Aufgabe 1

Rechne Plus oder Minus!

73 + 8 = ___	60 – 3 = ___	42 - ___ = 38
36 + 5 = ___	90 – 5 = ___	74 - ___ = 69
27 + 9 = ___	80 – 7 = ___	51 - ___ = 45
45 + 7 = ___	40 – 9 = ___	93 - ___ = 84
69 + 4 = ___	70 – 4 = ___	35 - ___ =28

27 + ___ = 33

39 + ___ = 42

46 + ___ = 54

58 + ___ = 62

68 + ___ = 75

___ /20P

Aufgabe 2

Fülle die Tabelle aus.

	- 3	- 7	- 5
21			
42			
54			

___ /9P

Aufgabe 3

Toms Bleistift ist 15 cm lang. Tinas Stift ist 6 cm kürzer.

Wie lang ist Tinas Stift?



Rechnung: _____

Antwort: _____

___ /2P

Aufgabe 4

Fülle die Tabelle aus.

- 8	
71	
	35
	22
25	
	16

___ /5P

Aufgabe 5

Rechenschlange. Berechne.

27 + 8 = _____ - 6 = _____

49 + 6 = _____ - 7 = _____

66 + 7 = _____ - 9 = _____

___ /6P

Aufgabe 6

Zeichne eine Strecke AB die 4cm lang ist. (1 Kästchen = 0,5 cm)

___ /1P

Lösung Klassenarbeit - Gemischte Themen 2. Halbjahr

Addition und Subtraktion; Sachaufgaben; Subtrahieren; Rechenschlange; Streke zeichnen

Aufgabe 1

Rechne Plus oder Minus!

73 + 8 = 81	60 - 3 = 57	42 - 4 = 38
36 + 5 = 41	90 - 5 = 85	74 - 5 = 69
27 + 9 = 36	80 - 7 = 73	51 - 6 = 45
45 + 7 = 52	40 - 9 = 31	93 - 9 = 84
69 + 4 = 73	70 - 4 = 66	35 - 7 =28

27 + 6 = 33

39 + 3 = 42

46 + 8 = 54

58 + 4 = 62

68 + 7 = 75

___ /20P

Aufgabe 2

Fülle die Tabelle aus.

	- 3	- 7	- 5
21	**18**	**14**	**16**
42	**39**	**35**	**37**
54	**51**	**47**	**49**

___ /9P

Aufgabe 3

Toms Bleistift ist 15 cm lang. Tinas Stift ist 6 cm kürzer.

Wie lang ist Tinas Stift?



Rechnung: **15 – 6 = 9 cm**

Antwort: **Leas Stift ist 9 cm lang.**

___ /2P

Aufgabe 4

Fülle die Tabelle aus.

- 8	
71	**63**
43	35
30	22
25	**17**
24	16

___ /5P

Aufgabe 5

Rechenschlange. Berechne.

27 + 8 = 35 - 6 = 29

49 + 6 = 55 - 7 = 48

66 + 7 = 73 - 9 = 64

___ /6P

Aufgabe 6

Zeichne eine Strecke AB die 4cm lang ist. (1 Kästchen = 0,5 cm)

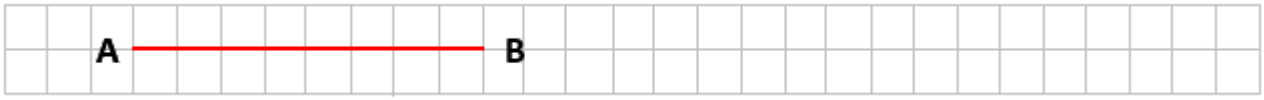

___ /1P

Viel Erfolg!!

Gesamt: ____/43P

Note	1	1-	1-2	2+	2	2-	2-3	3+	3	3-	3-4	4+	4	4-	4-5	5+	5	5-	5-6	6+
Punkte	40	39	37	36	34	32	31	29	27	25	23	21	19	17	15	12	10	9	7	5