Klassenarbeit - Winkel

Winkel messen

Aufgabe 1

Miss die Innenwinkel α, β und δ des Fünfecks ABCDE.

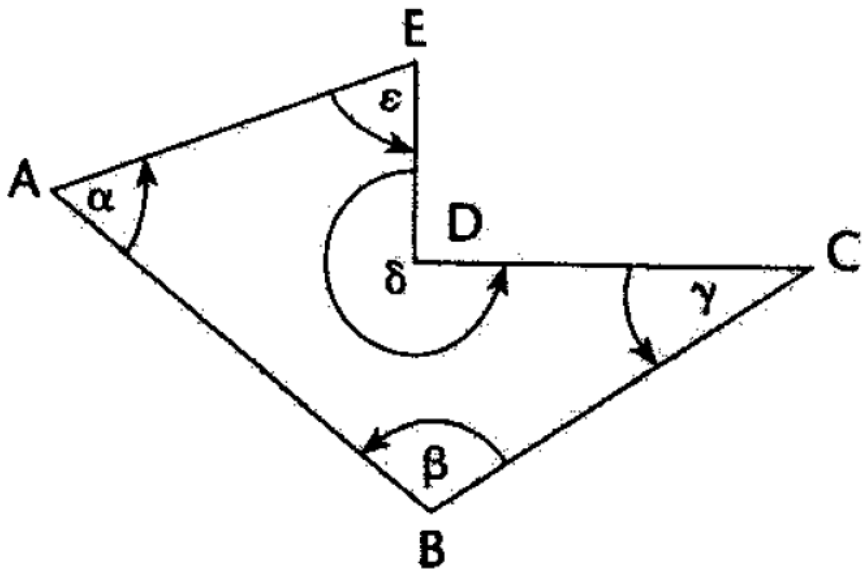

α = _____ β = _____ δ = _____

___ /3P

Aufgabe 2

Miss den Winkel α in der nebenstehenden Figur:

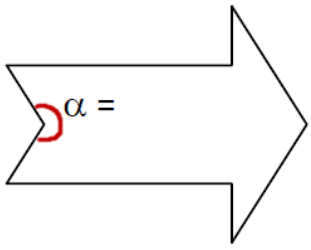

___ /2P

Lösung Klassenarbeit - Winkel

Winkel messen

Aufgabe 1

Miss die Innenwinkel α, β und δ des Fünfecks ABCDE.

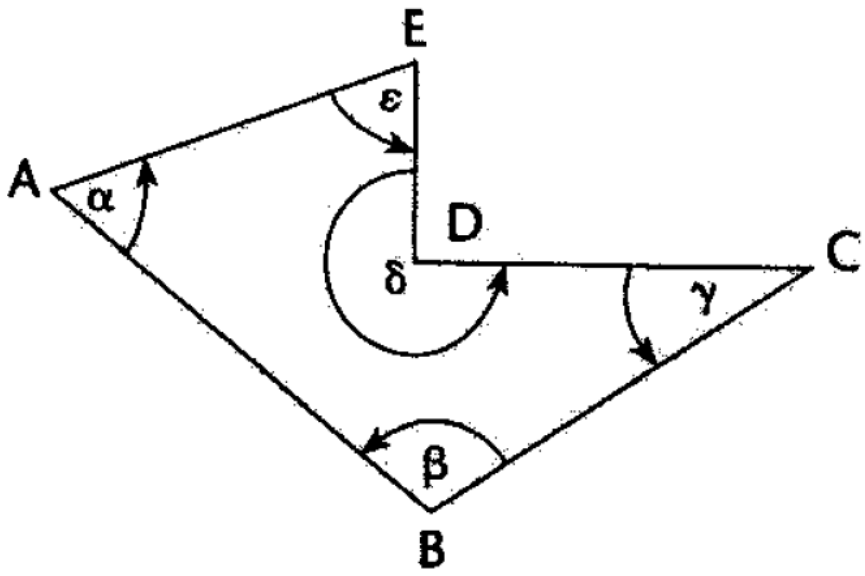

α = **59 °** β = **107 °** δ = **270 °**

___ /3P

Aufgabe 2

Miss den Winkel α in der nebenstehenden Figur:

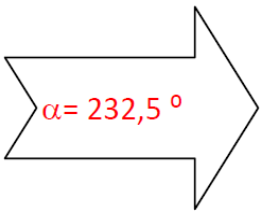

___ /2P

Viel Erfolg!!

Gesamt: ____/5P

Note	1	1-	1-2	2+	2	2-	2-3	3+	3	3-	3-4	4+	4	4-	4-5	5+	5	5-	5-6	6+
Punkte	4	4	4	4	4	3	3	3	3	3	2	2	2	2	1	1	1	1	0	0